МУНИЦИПАЛЬНОЕ БЮДЖЕТНОЕ ОБРАЗОВАТЕЛЬНОЕ УЧРЕЖДЕНИЕ ДОПОЛНИТЕЛЬНОГО ОБРАЗОВАНИЯ ДЕТСКО-ЮНОШЕСКАЯ СПОРТИВНАЯ ШКОЛА №7 МУНИЦИПАЛЬНОГО ОБРАЗОВАНИЯ ГОРОД КРАСНОДАР

Подписано цифровой подписью: МУНИЦИПАЛЬНОЕ БЮДЖЕТНОЕ ОБРАЗОВАТЕЛЬНОЕ УЧРЕЖДЕНИЕ ДОПОЛНИТЕЛЬНОГО ОБРАЗОВАНИЯ ДЕТСКО-ЮНОШЕСКАЯ СПОРТИВНАЯ ШКОЛА №7 МУНИЦИПАЛЬНОГО ОБРАЗОВАНИЯ ГОРОД КРАСНОДАР
Дата: 2022.04.15

| | |
|---|---|
| СОГЛАСОВАНО | УТВЕРЖДЕНО: |
| педагогическим советом | приказом МБОУ ДО ДЮСШ №7 |
| МБОУ ДО ДЮСШ №7 | от 28.02 2022г. № 40-о |
| протокол от 25.02 2022г. № 02 | |

# ПОЛОЖЕНИЕ
## об особенностях проведения набора (индивидуального отбора) поступающих в МБОУ ДО ДЮСШ №7 на дополнительную общеобразовательную предпрофессиональную программу в области физической культуры и спорта

## 1. Общие положения

1.1. Настоящее положение об особенностях проведения набора (индивидуального отбора) поступающих в МБОУ ДО ДЮСШ №7 на дополнительную общеобразовательную предпрофессиональную программу в области физической культуры и спорта (далее - Положение) разработано в соответствии с:

- Конвенцией ООН о правах ребенка,
- Конституцией РФ от 12.12.1993г.,
- Федеральным законом от 29.12.2012г. № 273-ФЗ «Об образовании в Российской Федерации»,
- Приказ Министерства просвещения РФ от 9 ноября 2018 года № 196 «Об утверждении Порядка организации и осуществления образовательной деятельности по дополнительным общеобразовательным программам»,
- Приказ Министерства спорта РФ от 01.11.2021 года № 841 «Об утверждении порядка приема на обучение по дополнительным предпрофессиональным программам в области физической культуры и спорта»,
- Уставом МБОУ ДО ДЮСШ №7.

1.2. Настоящее Положение определяет правила проведения набора (индивидуального отбора) поступающих в МБОУ ДО ДЮСШ №7 (далее – Учреждение) в части, не урегулированной законодательством об образовании.

## 2. Порядок набора (индивидуального отбора) в Учреждение

2.1. Порядок набора (индивидуального отбора) в Учреждение на обучение по дополнительной предпрофессиональной программе в области физической культуры и спорта регламентируется приказом Министерства спорта РФ от 01.11.2021 года № 841 «Об утверждении порядка приема на обучение по дополнительным предпрофессиональным программам в области физической культуры и спорта» и настоящим Положением.

2.2. Учреждение проводит набор (индивидуальный отбор) поступающих на обучение по дополнительной общеобразовательной предпрофессиональной программе в области физической культуры и спорта.

2.3. При наборе (индивидуальном отборе) поступающих на обучение, требования к уровню их образования не предъявляются.

2.4. Прием на обучение по дополнительной общеобразовательной предпрофессиональной программе в области физической культуры и спорта проводится на основании результатов индивидуального отбора, проводимого в целях выявления лиц, имеющих необходимые для освоения соответствующей образовательной программы способности в области физической культуры и спорта.

## 3. Организация проведения индивидуального отбора поступающих

3.1. Индивидуальный отбор поступающих в Учреждение проводит приемная комиссия. Учреждение самостоятельно устанавливает сроки проведения индивидуального отбора поступающих в соответствующем году, утверждаемые приказом директора Учреждения.

3.2. Индивидуальный отбор поступающих проводится в формах, предусмотренных образовательной организацией, с целью зачисления лиц, обладающих способностями в области физической культуры и спорта, необходимыми для освоения соответствующей образовательной программы и в соответствии с избранным видом спорта.

3.3. Во время проведения индивидуального отбора поступающих присутствие посторонних лиц допускается только с разрешения директора Учреждения.

3.4. Результаты индивидуального отбора объявляются не позднее чем через три рабочих дня после его проведения. Объявление указанных результатов осуществляется путем размещения пофамильного списка-рейтинга с указанием системы оценок, применяемой в Учреждении, и самих баллов (показателей в единицах измерения), полученных каждым поступающим по итогам индивидуального отбора. Данные результаты размещаются на информационном стенде и на официальном сайте Учреждения в информационно-телекоммуникационной сети «Интернет» с учетом соблюдения законодательства Российской Федерации в области персональных данных.

3.5. Учреждением предусматривается проведение дополнительного отбора для лиц, не участвовавших в первоначальном индивидуальном отборе в установленные Учреждением сроки по уважительной причине, в пределах общего срока проведения индивидуального отбора поступающих.

3.6. При прохождении вступительных испытаний у поступающего не должно быть электронных устройств.

3.7. Для допуска к прохождению индивидуального отбора у поступающего не должно быть противопоказаний для занятий выбранным видом спорта, о чем подтверждается справкой-допуском.

3.8. Сдача вступительных испытаний проводится в помещениях

Учреждения.

3.9. Для зачисления на дополнительную общеобразовательную предпрофессиональную программу по избранному виду спорта поступающему предлагается сдать ряд контрольных тестов.

3.10. По результатам сдачи каждого контрольного теста поступающий набирает определенное количество баллов. Для зачисления на программу поступающему необходимо набрать определенную сумму баллов (определяется на конкурсной основе).

## Критерии отбора для зачисления на обучение по дополнительной общеобразовательной предпрофессиональной программе для базового уровня 1 года обучения по виду спорта шахматы, шашки

Решение 5 логических тестов.

Количество баллов для зачисления = 15 баллов

### 1. Тест «Логические таблицы»

Найди закономерность и дорисуй недостающие фигуры.

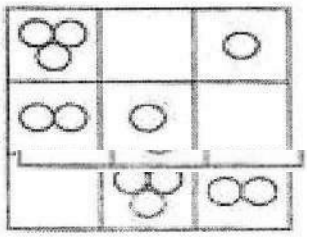



**Результаты теста:**

**5 баллов** - поступающий полностью и правильно справился с заданием
**4 баллов** – поступающий справился с заданием с одной ошибкой
**3 баллов** – поступающий справился с заданием с двумя ошибками
**2 балла** – поступающий справился с заданием с тремя ошибками
**1 балл** - поступающий не справился с заданием.

### 2. Тест «Клетки»

Какие фигурки должны быть в пропущенных клетках? Нарисуй.

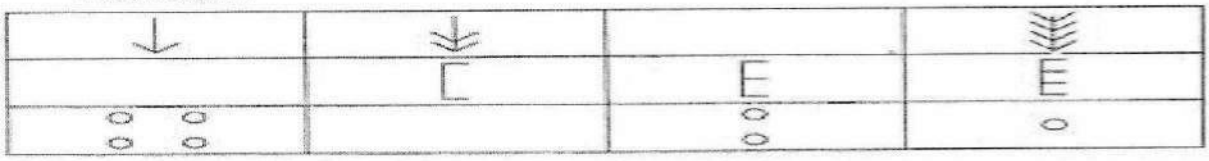

**Результаты теста:**

**5 баллов** - поступающий полностью и правильно справился с заданием
**4 баллов** – поступающий справился с заданием с одной ошибкой
**3 баллов** – поступающий справился с заданием с двумя ошибками
**2 балла** – поступающий справился с заданием с тремя ошибками
**1 балл** - поступающий не справился с заданием.

## 3. Тест «Логическое мышление»

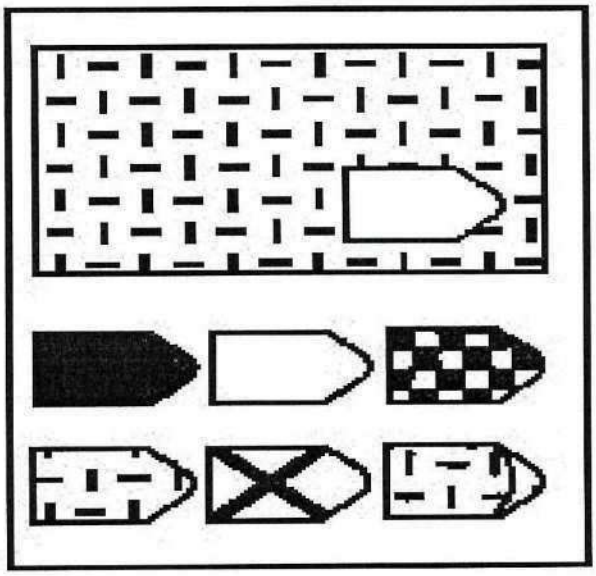



Перед тобой находятся два узора, а также кусочки бумаги, которые нужно использовать, чтобы дополнить их и залатать пустые места. Для того чтобы выполнить задание нужно выбрать тот кусочек бумаги, который бы не отличался от общего узора. Проставь нумерацию под каждым кусочком бумаги и впишите номер кусочка бумаги, который должен залатать пустые места.

**Результаты теста:**

**5 баллов** - поступающий полностью и правильно справился с заданием
**4 баллов** – поступающий справился с заданием с одной ошибкой
**3 баллов** – поступающий справился с заданием с двумя ошибками
**2 балла** – поступающий справился с заданием с тремя ошибками
**1 балл** - поступающий не справился с заданием.

## 4. Тест «Занимательный квадрат»

В трех квадратах нарисованы шахматные фигуры. В двух квадратах они располагаются совершенно одинаково, а в оставшемся квадрате одна фигура помещена не так, как в остальных двух. Необходимо найти этот квадрат, и поставить сверху галочку.

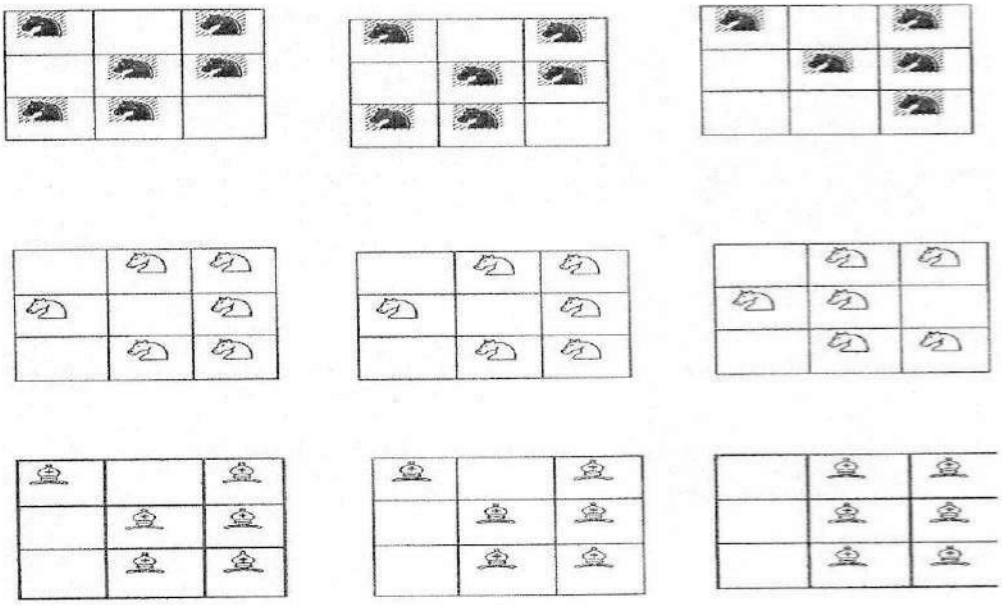

**Результаты теста:**

**5 баллов** - поступающий полностью и правильно справился с заданием
**4 баллов** – поступающий справился с заданием с одной ошибкой
**3 баллов** – поступающий справился с заданием с двумя ошибками
**2 балла** – поступающий справился с заданием с тремя ошибками
**1 балл** - поступающий не справился с заданием.

### 5. Тест «Перепутанные линии»

Необходимо проследить линию слева направо, чтобы определить, где она кончается. Начинать нужно с линии А. Вы должны записать тот номер, которым эта линия заканчивается.




**Результаты теста:**

**5 баллов** - поступающий полностью и правильно справился с заданием
**4 баллов** – поступающий справился с заданием с одной ошибкой
**3 баллов** – поступающий справился с заданием с двумя ошибками
**2 балла** – поступающий справился с заданием с тремя ошибками
**1 балл** - поступающий не справился с заданием.

**Критерии отбора для зачисления на обучение по дополнительной общеобразовательной предпрофессиональной программе для базового уровня 2 года обучения по виду спорта шахматы**

Ответы на 10 вопросов.
Количество баллов для зачисления = 8 баллов

1. Буквальный перевод слова ШАХМАТЫ с персидского языка …
☐ А) Король победил
☐ Б) Король умер
☐ В) Набор фигур
☐ Г) Конь ускакал

2. Игра – предшественник шахмат, пришедшая из Персии называется
☐ А) Шатранж
☐ Б) Шашки
☐ В) Нарды
☐ Г) Го

3. Современные шахматы появились в …
☐ А) России
☐ Б) США
☐ В) Индии
☐ Г) Японии

4. Количество клеток на шахматной доске…
☐ А) 100
☐ Б) 32
☐ В) 50
☐ Г) 64

5. Количество клеток белого цвета на шахматной доске
☐ А) 16
☐ Б) 32
☐ В) 48
☐ Г) 64

6. Количество вертикалей на шахматной доске…
☐ А) 4
☐ Б) 8
☐ В) 10
☐ Г) 16

7. Горизонтали на шахматной доске обозначаются …
☐ А) цифрами
☐ Б) буквами
☐ В) цветом

□ Г) значками

8. Количество чёрных и белых фигур в начале партии на шахматной доске
□ А) 8
□ Б) 16
□ В) 32
□ Г) 64

9. Количество белых пешек в начальной расстановке фигур на шахматной доске
□ А) 4
□ Б) 6
□ В) 8
□ Г) 10

10. Основная цель шахматной партии
□ А) Съесть все фигуры
□ Б) Съесть короля
□ В) Поставить шах
□ Г) Поставить мат

**Результаты ответов:**
**1 балл -** поступающий правильно справился с заданием
**0 баллов** – поступающий не справился с заданием.

## Критерии отбора для зачисления на обучение по дополнительной общеобразовательной предпрофессиональной программе для базового уровня 3 года обучения по виду спорта шахматы

Ответы на 10 вопросов.
Количество баллов для зачисления = 8 баллов

1. Единственная шахматная фигура, умеющая перепрыгивать через свои фигуры и фигуры соперника, – это ...
□ А) Слон
□ Б) Конь
□ В) Ладья
□ Г) Ферзь

2. Наиболее верное описание движения шахматного коня по доске ..
□ А) Буквой Г
□ Б) Две клетки по прямой и одна клетка в сторону
□ В) По диагоналям
□ Г) По вертикалям и горизонталям

3. Какое количество клеток доступно для хода шахматного коня, если он стоит в центре доски
□ А) 2
□ Б) 4
□ В) 6

□ Г) 8

4. Какое количество клеток доступно для хода шахматного коня, если он стоит на краю доски
□ А) 2
□ Б) 4
□ В) 6
□ Г) 8

5. Какое количество клеток доступно для хода шахматного коня, если он стоит в углу доски
□ А) 2
□ Б) 4
□ В) 6
□ Г) 8

6. За какое минимальное количество ходов белый конь сможет съесть черную пешку (пешка не ходит)
□ А) 3
□ Б) 4
□ В) 5
□ Г) 6

7. За какое минимальное количество ходов белый конь сможет съесть черную пешку (пешка не ходит)
□ А) 1
□ Б) 2
□ В) 3
□ Г) 4

8. На какой картинке правильно показано направление возможных ходов шахматного слона
□ А)
□ Б)
□ В)
□ Г)

9. Какое количество клеток доступно для хода шахматного слона, если он стоит в центре доски
□ А) 7
□ Б) 9
□ В) 11
□ Г) 13

10. За какое минимальное количество ходов белый слон сможет съесть все черные пешки (пешки не ходит)
□ А) 3
□ Б) 4

□ В) 5
□ Г) 6

**Результаты ответов:**
**1 балл** - поступающий правильно справился с заданием
**0 баллов** – поступающий не справился с заданием.

## Критерии отбора для зачисления на обучение по дополнительной общеобразовательной предпрофессиональной программе для базового уровня 4 года обучения по виду спорта шахматы

Ответы на 4 вопроса и решение задач.
Количество баллов для зачисления = 4 балла

1. За какое минимальное количество ходов белый слон сможет съесть все черные пешки (пешки не ходит)
□ А) 5
□ Б) 6
□ В) 7
□ Г) 8

2. За какое минимальное количество ходов белый слон сможет съесть все черные пешки (пешки не ходит)
□ А) 5
□ Б) 6
□ В) 7
□ Г) Съесть все пешки нельзя

3. Какое количество клеток доступно для хода шахматного слона, если он стоит на краю доски
□ А) 7
□ Б) 9
□ В) 11
□ Г) 13

4. Что такое комбинация? Рассказать о комбинации на тему завлечения.

5. Решить и записать решение. Ход белых.





**Результаты ответов:**
**1 балл** - поступающий правильно справился с заданием
**0 баллов** – поступающий не справился с заданием.

## Критерии отбора для зачисления на обучение по дополнительной общеобразовательной предпрофессиональной программе для базового уровня 5 года обучения по виду спорта шахматы

Решение 4 задач.
Количество баллов для зачисления = 3 балла



*Ход белых*



*Ход черных*



*Ход белых*



*Ход черных*

**Результаты ответов:**
**1 балл** - поступающий правильно справился с заданием
**0 баллов** – поступающий не справился с заданием.

## Критерии отбора для зачисления на обучение по дополнительной общеобразовательной предпрофессиональной программе для базового уровня 6 года обучения по виду спорта шахматы

Решение 4 задач.
Количество баллов для зачисления = 3 балла



*Ход белых*



*Ход белых*



*Ход черных*



*Ход черных*

**Результаты ответов:**

**1 балл -** поступающий правильно справился с заданием

**0 баллов** – поступающий не справился с заданием.

## Критерии отбора для зачисления на обучение по дополнительной общеобразовательной предпрофессиональной программе для углубленного уровня 1 года обучения по виду спорта шахматы

Решение 4 задач.

Количество баллов для зачисления = 3 балла



*Ход белых*



*Ход черных*



*Ход белых*



*Ход черных*

**Результаты ответов:**

**1 балл** - поступающий правильно справился с заданием

**0 баллов** – поступающий не справился с заданием.

## Критерии отбора для зачисления на обучение по дополнительной общеобразовательной предпрофессиональной программе для углубленного уровня 2 года обучения по виду спорта шахматы

Решение 4 задач.

Количество баллов для зачисления = 3 балла



Черные фигуры расположены гораздо лучше белых. Если мы глубже вникнем в эту позицию, то увидим, что в лагере белых есть серьезная слабость — пункт f2. Как должны играть черные?



Белые с удовольствием сыграли бы 19.e5, угрожая матом на h7, но у черных на это найдется защита 19...f5. Какой неожиданный ход принес белым решающий перевес?

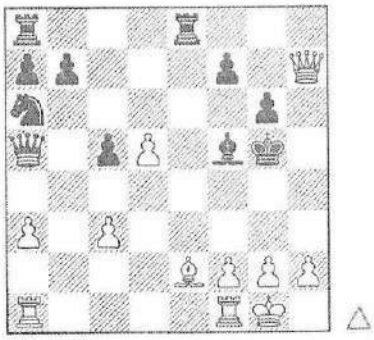



**Результаты ответов:**

**1 балл -** поступающий правильно справился с заданием

**0 баллов** – поступающий не справился с заданием.

## Критерии отбора для зачисления на обучение по дополнительной общеобразовательной предпрофессиональной программе для базового уровня 2 года обучения по виду спорта шашки

Ответы на 10 вопросов.

Количество баллов для зачисления = 8 баллов

1. Дайте определение термину «рожон»:

А) шашка, достигшая 6-ой горизонтали и противостоящая двум шашкам соперника, если у него нет возможности её атаковать.

Б) шашка, достигшая 7-ой горизонтали и противостоящая двум шашкам соперника, если у него нет возможности её атаковать.

В) шашка, достигшая 8-ой горизонтали и противостоящая двум шашкам соперника, если у него нет возможности её атаковать.

2. Дайте характеристику термину «ЛЮБКИ»:

А) шашка соперника заходит в середину, когда одна из шашек гибнет, то есть она как бы говорит «отдай любую».

Б) шашка соперника заходит на поле b4.
В) шашка соперника изолируется от остальных.

3. Окончание в партии - …
А) завершающая стадия партии, в которой действует ограниченное количество шашек, и где значение каждого хода огромно.
Б) начальная стадия игры.
В) стадия в середине партии в которой действует неограниченное количество шашек.

4. Комбинация – это?
А) серия последовательных взаимосвязанных между собой ходов, объединённых единым замыслом и форсировано путём жертв шашек, осуществляющих его.
Б) ловушка.
В) проигрыш партии.

5. Изолированные шашки - ?
А) шашки, удалённые от своих сил.
Б) шашки, близко расположенные к своим.
В) пустые поля.

6. Бортовые шашки в игре являются:
А) активными.
Б) сильными.
В) слабыми и пассивными.
Г) все варианты верны.

7. Безупорные позиции это такие позиции когда…
А) шашки, в которых отсутствуют упоры, и всякая возможность произвести размен.
Б) шашки, в которых присутствуют упоры, и всякая возможность произвести размен.
В) шашки, в которых нет никакой возможности побить дамкой.

8. К безупорным позициям можно отнести:
А) скученные, отсталые и «нормальные позиции», но упоры в них отсутствуют.
Б) скученные, отсталые и «нормальные позиции», но упоры в них присутствуют.
В) сильные и активные поля.

9. Центр можно окружить в следующих случаях:
А) когда он переразвит.
Б) когда он безупорен (в позиции нет полезных разменов).
В) при наличии отсталых шашек a1, a3, h2.
Г) когда соперник играет неумело.
Д) все вышеперечисленные варианты верны.

10. Роздых – это?

А) наличие свободного темпа у обоих соперников.

Б) наличие свободного темпа у одного из соперников.

В) отсутствие темпа.

**Результаты ответов:**

**1 балл** - поступающий правильно справился с заданием

**0 баллов** – поступающий не справился с заданием.

## Критерии отбора для зачисления на обучение по дополнительной общеобразовательной предпрофессиональной программе для базового уровня 3 года обучения по виду спорта шашки

Решение 6 задач.

Количество баллов для зачисления = 5 баллов

Во всех задачах белые начинают и выигрывают.















**Результаты ответов:**

**1 балл -** поступающий правильно справился с заданием

**0 баллов** – поступающий не справился с заданием.

## Критерии отбора для зачисления на обучение по дополнительной общеобразовательной предпрофессиональной программе для базового уровня 4 года обучения по виду спорта шашки

Решение 5 задач.

Количество баллов для зачисления = 4 баллов

1. Как завершится игра для белых?

   а) победа б) поражение в) ничья



2. Сколько ходов потребуется белым, чтобы сбить все черные шашки?

   а) семь б) три в) пять г) один



3. Как завершится игра для белых?
   а) победа б) ничья в) поражение



4. Какого результата смогут добиться белые?
   а) победа б) ничья в) поражение



5. Смогут ли белые одним ударом сбить все черные шашки?
   а) да б) нет



**Результаты ответов:**

**1 балл -** поступающий правильно справился с заданием

**0 баллов** – поступающий не справился с заданием.

## Критерии отбора для зачисления на обучение по дополнительной общеобразовательной предпрофессиональной программе для базового уровня 5 года обучения по виду спорта шашки

Решение 12 задач.

Количество баллов для зачисления = 20 баллов



1 балл



1 балл



1 балл



1 балл



2 балла



2 балла



2 балла



2 балла



3 балла



3 балла



3 балла



3 балла

**Критерии отбора для зачисления на обучение по дополнительной общеобразовательной предпрофессиональной программе для базового уровня 6 года обучения по виду спорта шашки**

Решение 8 задач.
Количество баллов для зачисления = 31 балл


4 балла


4 балла


4 балла


4 балла


5 баллов


5 баллов


5 баллов


5 баллов

**Критерии отбора для зачисления на обучение по дополнительной общеобразовательной предпрофессиональной программе для углубленного уровня 1 года обучения по виду спорта шашки**

Решение 8 задач.
Количество баллов для зачисления = 20 баллов


1 балл


1 балл


1 балл


1 балл



2 балла



2 балла



2 балла



2 балла



3 балла



3 балла



3 балла



3 балла

**Критерии отбора для зачисления на обучение по дополнительной общеобразовательной предпрофессиональной программе для углубленного уровня 2 года обучения по виду спорта шашки**

Решение 8 задач.

Количество баллов для зачисления = 31 балл



4 балла



4 балла



4 балла



4 балла



5 баллов



5 баллов



5 баллов



5 баллов